Travail pour la semaine 2 du …… au ……

Exercice 1 :

Les situations suivantes sont-elles des situations de proportionnalité ? Justifie tes réponses.

1. Une barquette de 500 g de fraises coûte 2,25 €.
   Une barquette de 1kg de fraises coûte 4,50 €.
2. 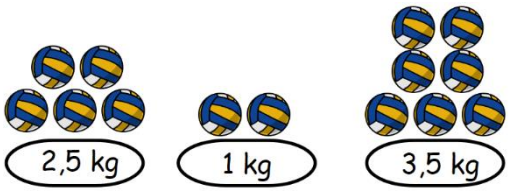

3. Tarifs pour des DVD :

Nombre de DVD achetés	1	2	5
Prix (en €)	10	20	40

Exercice 2 :

Calcule le périmètre et l'aire de chaque figure. N'oublie pas d'indiquer tes calculs.

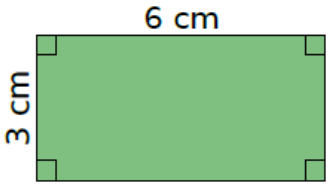

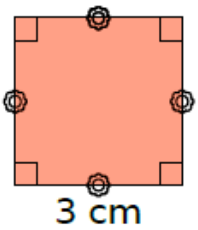

Aide pour les formules d'aires : Bullesmaths 5ème padlet gourmandises
padlet macarons GÉO 1 - Rappels

Exercice 3 :

1. Écris l'opération puis le résultat sans utiliser la calculatrice :
   a. la somme de 34 et 12 b. la différence de 34 et 12
   c. le produit de 34 par 100 d. le quotient de 100 par 25
2. Calcule astucieusement :
   A = 15,5 + 3,8 + 4,5 + 10,1 + 0,2 + 5,9

Attention, avoir la bonne réponse ne suffit pas.
Si tu es interrogé(e), tu seras évalué(e) sur :

- les explications que tu donneras ;
- La bonne tenue de ton cahier et la rédaction de ton exercice.

Travail pour la semaine 2 du …… au ……

Exercice 1 :

Les situations suivantes sont-elles des situations de proportionnalité ? Justifie tes réponses.

1. Une barquette de 500 g de fraises coûte 2,25 €.
   Une barquette de 1kg de fraises coûte 4,50 €.
2. 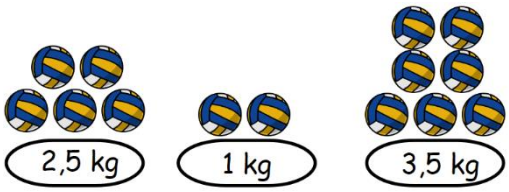

3. Tarifs pour des DVD :

Nombre de DVD achetés	1	2	5
Prix (en €)	10	20	40

Exercice 2 :

Calcule le périmètre et l'aire de chaque figure. N'oublie pas d'indiquer tes calculs.

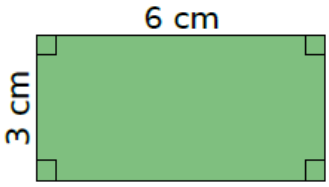

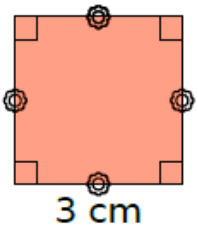

Aide pour les formules d'aires : Bullesmaths 5ème padlet gourmandises
padlet macarons GÉO 1 - Rappels

Exercice 3 :

1. Écris l'opération puis le résultat sans utiliser la calculatrice :
   a. la somme de 34 et 12 b. la différence de 34 et 12
   c. le produit de 34 par 100 d. le quotient de 100 par 25
2. Calcule astucieusement :
   A = 15,5 + 3,8 + 4,5 + 10,1 + 0,2 + 5,9

Attention, avoir la bonne réponse ne suffit pas.
Si tu es interrogé(e), tu seras évalué(e) sur :

- les explications que tu donneras ;
- La bonne tenue de ton cahier et la rédaction de ton exercice.